Nome e apelidos:

Curso e grupo:

TEMA 3-4: ESQUEMA DOS ELEMENTOS DO CLIMA

Son fenómenos atmosféricos que se poden medir e rexistrar

A TEMPERATURA

É o grao de……da……..debido á…….

Mídese en……..

Para medila utilízase o……..

A temperatura represéntase nos mapas coas…….

As ……..son liñas que unen puntos de…….

A diferenza entre a temperatura máxima e a mínima chámase…… …….

A PRECIPITACIÓN

É a……. …en forma…… ou…….

Mídese en……..

Para medila utilízase o……..

A precipitación represéntase nos mapas coas…….

As ……..son liñas que unen puntos de…….

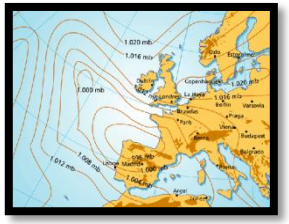

A PRESIÓN ATMOSFÉRICA



É o…… sobre……

Mídese en ……..

Para medila utilízase o……..

A presión atomosférica represéntase nos mapas coas…….

As ……..son liñas que unen puntos de…….

A presión diminúe coa……..pero non todos os sitios á mesma altura teñen a mesma presión, xa que o aire…….é máis denso có……..e exerce máis presión

As áreas de alta presión (por riba dos…….mb) chámanse……..e as de baixa presión chámanse……..

OS VENTOS

Son……..que se desprazan polas diferenzas de……..dende as altas ás baixas……..

Médinse co……e exprénsanse en……..



o……indica a dirección do vento

Os seus nomes indican a súa……

A HUMIDADE

É a……

Mídese en ……..

Para medila utilízase o……..

Nome e apelidos:

Curso e grupo:

TEMA 3-4: ESQUEMA DOS FACTORES DO CLIMA

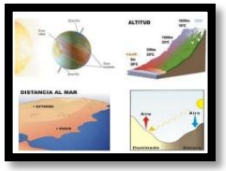

Son os axentes que modifican os elementos do clima dun lugar e orixinan a diversidade climática do planeta

A LATITUDE

Inflúe no clima dos seguintes xeitos:

A temperatura é……..nas latitudes preto do……(onde chegan máis próximos os raios solares)

A temperatura é …….nas latitudes……(os raios solares chegan moi inclinados e quentan pouco)

A temperatura inflúe tamén nas……., xa que o aire……..contén máis vapor de auga que o aire……

A ALTITUDE

Inflúe na ……e nas …….

A ……altitude,…… ……..temperatura

Básicamente, por cada……..metros, a temperatura descende…….

O aire……..favorece a condensación do vapor de auga, polo que……..as precipitacións ao……a… ……

A DISTRIBUCIÓN DOS OCÉANOS E CONTINENTES

O mar tarda……..en quentarse e arrefriarse que…….

No interior dos continentes fai…….ou máis……..que na costa, pola lonxanía do mar, o que se coñece como efecto de…… …..

OS CENTROS DE ACCIÓN

Os dous principais son os…….. e as……..

Tamén se inclúen os……..que circulan entre os anteriores.

As masas de aire poden ser……ou ……., e tamén se clasifican como……. ou……..

Cando se moven, cambian a súa……..e a súa ……, pero sen……., polo que ao contactar dúas masas de aire distintas, prodúcese unha……

AS CORRENTES MARIÑAS

Son……. que se desprazan pola…… …e os……

Unhas son……e outras son……..
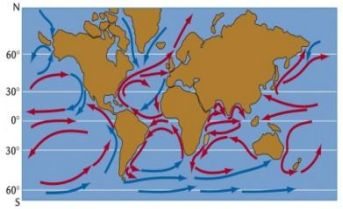
Inflúen no clima das……que bañan, temperando ou arrefriando as……..